Arbeitsblatt 1

Technisches Zeichnen

Übungen zur Dreitafelprojektion

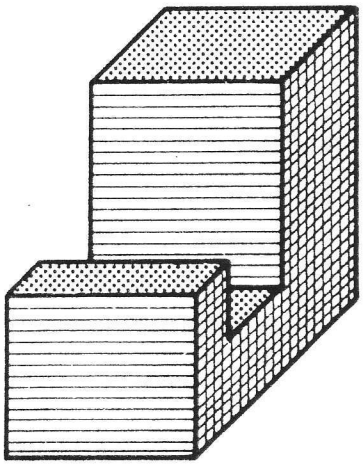

Zur Seitenansicht gehört

a) ☐
b) ☐
c) ☐

Zur Draufsicht gehört

a) ☐
b) ☐
c) ☐

Zur Vorderansicht gehört

a) ☐
b) ☐
c) ☐

Kreuze an!

Ordne den Körpern die entsprechenden Ansichten zu!

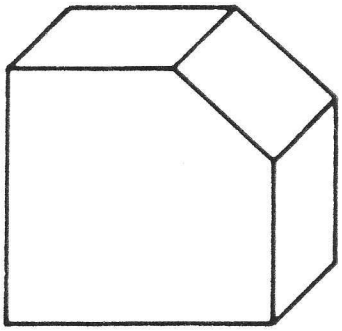

Vorderansicht ___
Seitenansicht ___
Draufsicht ___

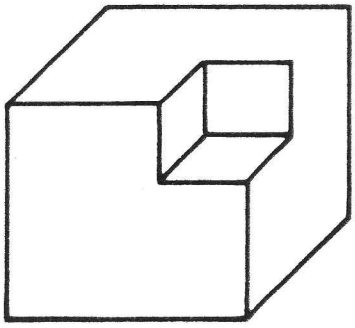
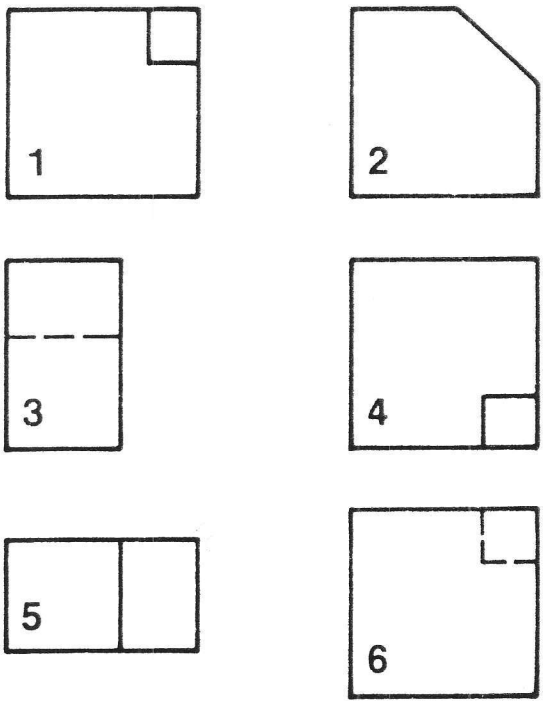
Vorderansicht ___
Seitenansicht ___
Draufsicht ___